2 X 7 = 14 3 X 8 = 24

5 X 7 = 35 4 X 9 = 36

6 X 5 = 30 2 X 8 = 16

h	da	u	
1	2	2	+
	1	8	=
1	4	0	

h	da	u	
1	4	4	+
2	0	9	=
3	5	3	

h	da	u	
1	5	9	+
1	1	7	=
2	7	6	

h	da	u	
2	5	7	+
1	2	5	=
3	8	2	

h	da	u	
1	4	8	+
		8	=
1	5	6	

h	da	u	
1	2	3	+
	1	8	=
1	4	1	

h	da	u	
2	8	6	+
	2	4	=
3	1	0	

h	da	u	
1	9	2	+
	2	9	=
2	2	1	

h	da	u	
1	8	8	+
	4	5	=
2	3	3	

h	da	u	
2	8	3	+
	5	8	=
3	4	1	

h	da	u	
1	~~7~~8	10	−
	3	4	=
1	4	6	

h	da	u	
1	~~8~~7	11	−
	7	9	=
1	1	2	

h	da	u	
1	~~23~~1	4	−
	2	5	=
1	0	9	

h	da	u	
1	9	3	−
	2	1	=
1	7	2	

h	da	u	
2	5	7	−
	5	5	=
2	0	2	

h	da	u	
1	3	4	−
1	1	0	=
	2	4	

h	da	u	
2	~~34~~	16	−
1	3	9	=
1	0	7	

h	da	u	
1	~~56~~	19	−
1	3	6	=
	3	3	

h	da	u	
1	~~82~~	12	−
1	4	5	=
	4	7	

h	da	u	
0	~~1~~1	9	−
	2	7	=
	9	2	

Problemi

La nonna ha preparato per i suoi nipotini 6 piatti di frittelle. In ogni piatto ha messo 7 frittelle.
Quante frittelle ci sono in tutto?

Dati

6 = piatti di frittelle
7 = frittelle in ogni piatto

Operazione

6 x 7 = 42

Risposta

In tutto ci sono 42 frittelle.

Nel laghetto del parco ci sono 124 aironi; 76 volano via.
Quanti aironi rimangono?

Dati

124 = aironi nel laghetto
76 = aironi volati via

Operazione

124 - 76 = 48

h	da	u	
0	1	4	-
	7	6	=
	4	8	

Risposta

Nel laghetto restano 48 aironi.

Nella libreria della scuola ci sono 123 libri di avventura e 78 libri di fiabe.

Quanti libri ci sono in tutto?

Dati

123 = libri di avventura

78 = libri di fiabe

Operazione

123 + 78 = 201

h	da	u	
1	2	3	+
	7	8	=
2	0	1	

Risposta

In tutto ci sono 201 libri.

Marco fa la collezione di figurine di calciatori e finora ne ha raccolte in tutto 135. Di queste, 18 sono della sua squadra del cuore.

Quante sono le figurine delle altre squadre?

Dati

135 = figurine in tutto

18 = figurine della sua squadra del cuore

Operazione

135 - 18 = 117

h	da	u	
1	2	15	-
	1	8	=
1	1	7	

Risposta

Le figurine delle altre squadre sono 117.

Completa la ruota della tabellina del 2.



In ogni coppia cerchia il numero che fa parte della sequenza del 2.

15	20	17	12	14	11	7	2
16	9	6	11	3	16	5	10
13	10	8	19	7	4	2	19
4	1	2	1	12	13	6	15
19	6	4	17	1	16	18	11
5	14	3	10	20	19	8	17

Scrivi i risultati della tabellina del 3.



Con una linea collega in ordine i risultati della tabellina del 3.

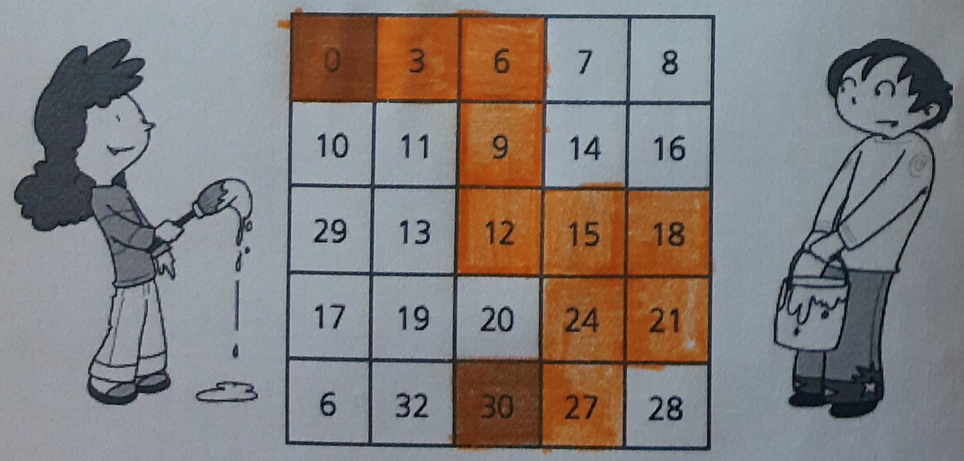

0	3	6	7	8
10	11	9	14	16
29	13	12	15	18
17	19	20	24	21
6	32	30	27	28

Qual è la strada che la farfalla deve percorrere per arrivare a un fiore?
Colora in ordine i risultati della tabellina del 4 (da 4 a 40) e lo scoprirai.

Scrivi i risultati della tabellina del 4, poi colora la bambola secondo le indicazioni.

4 × 1 = 4 ROSA
4 × 7 = 28 MARRONE
4 × 2 = 8 ROSSO
4 × 4 = 16 NERO
4 × 9 = 36 BLU
4 × 6 = 24 GIALLO
4 × 8 = 32 VERDE

Colora solo il fiore in cui è scritto il risultato esatto della tabellina del 4.



Collega ogni nuvoletta al finestrino su cui è scritto il risultato della tabellina del 5.

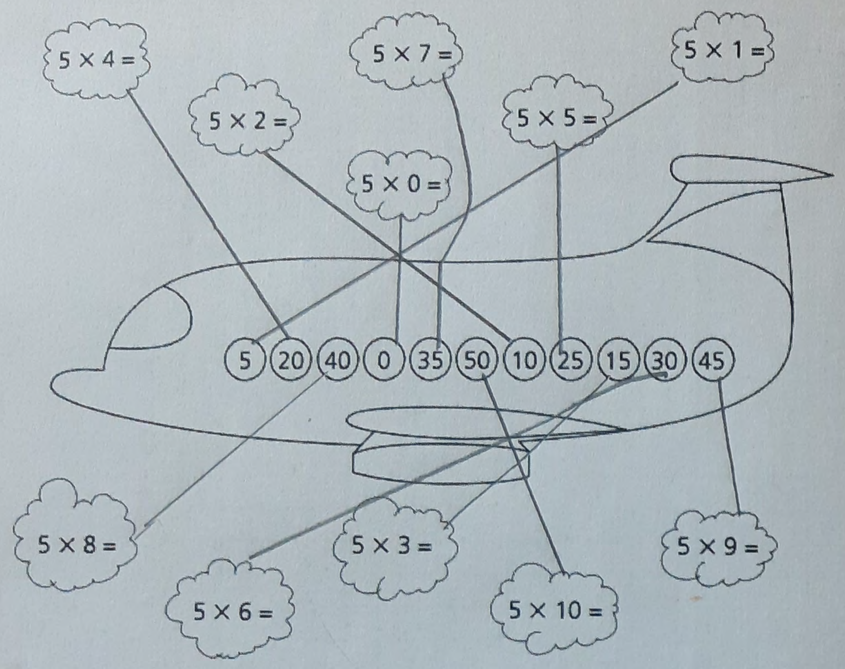

In ogni coppia cerchia il numero che fa parte della sequenza del 5.

15	21	24	25	5	12	18	25
10	14	40	42	50	49	45	48
13	10	8	15	7	5	20	19
25	32	27	20	10	12	20	36
30	39	40	36	35	44	50	38
22	25	30	26	43	40	35	36

Qual è la strada che il topo deve percorrere per arrivare a un formaggio?
Colora in ordine i risultati della tabellina del 5 (da 5 a 50) e lo scoprirai.

Su quale fiore si poserà ogni ape? Collega con una freccia. Segui l'esempio.



Scrivi il precedente o il successivo dei numeri dati nella sequenza del 6.

30	36	6	12	36	42	48	54
42	48	18	24	48	54	54	60
0	6	12	18	54	60		30

Qual è la strada che il gatto deve percorrere per arrivare a un topolino?
Colora in ordine i risultati della tabellina del 6 (da 6 a 60) e lo scoprirai.

Risolvi il cruci-numero.

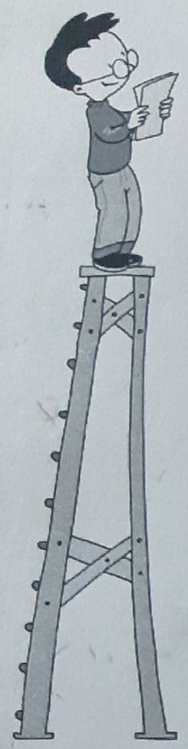



ORIZZONTALI

1. 8 + 8
2. 7 + 8
3. 11 + 3
5. 9 + 4
6. 12 + 7
7. 5 + 11
8. 12 + 6
9. 11 + 9
11. 4 + 6
12. 8 + 6

VERTICALI

1. 5 + 8
2. 8 + 6
3. 6 + 7
4. 11 + 8
5. 12 + 4
6. 9 + 9
7. 6 + 6
8. 3 + 7
9. 13 + 7
10. 7 + 7

Collega le coppie di numeri che insieme formano 50.

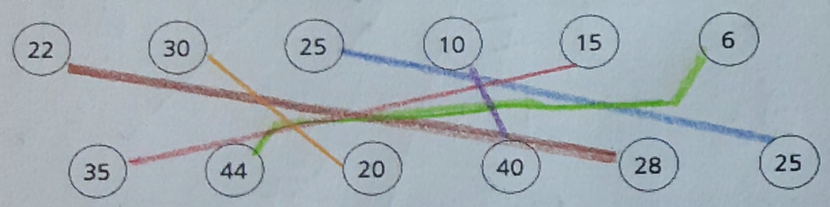

Collega le coppie di numeri che insieme formano 80.

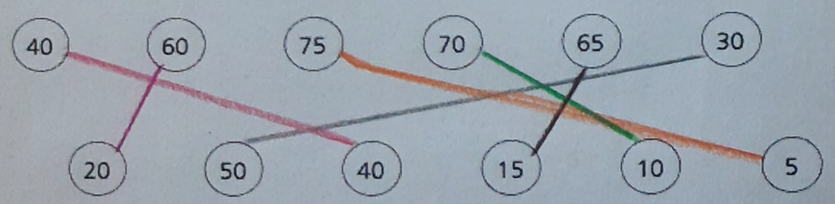

Collega le coppie di numeri che insieme formano 100.

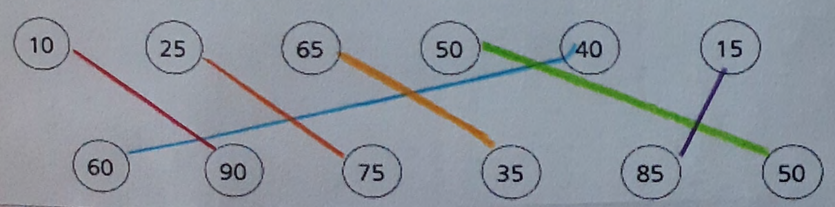

Completa le ruote.



- Disegna tu la ruota della tabellina del 6 nel quaderno e completala

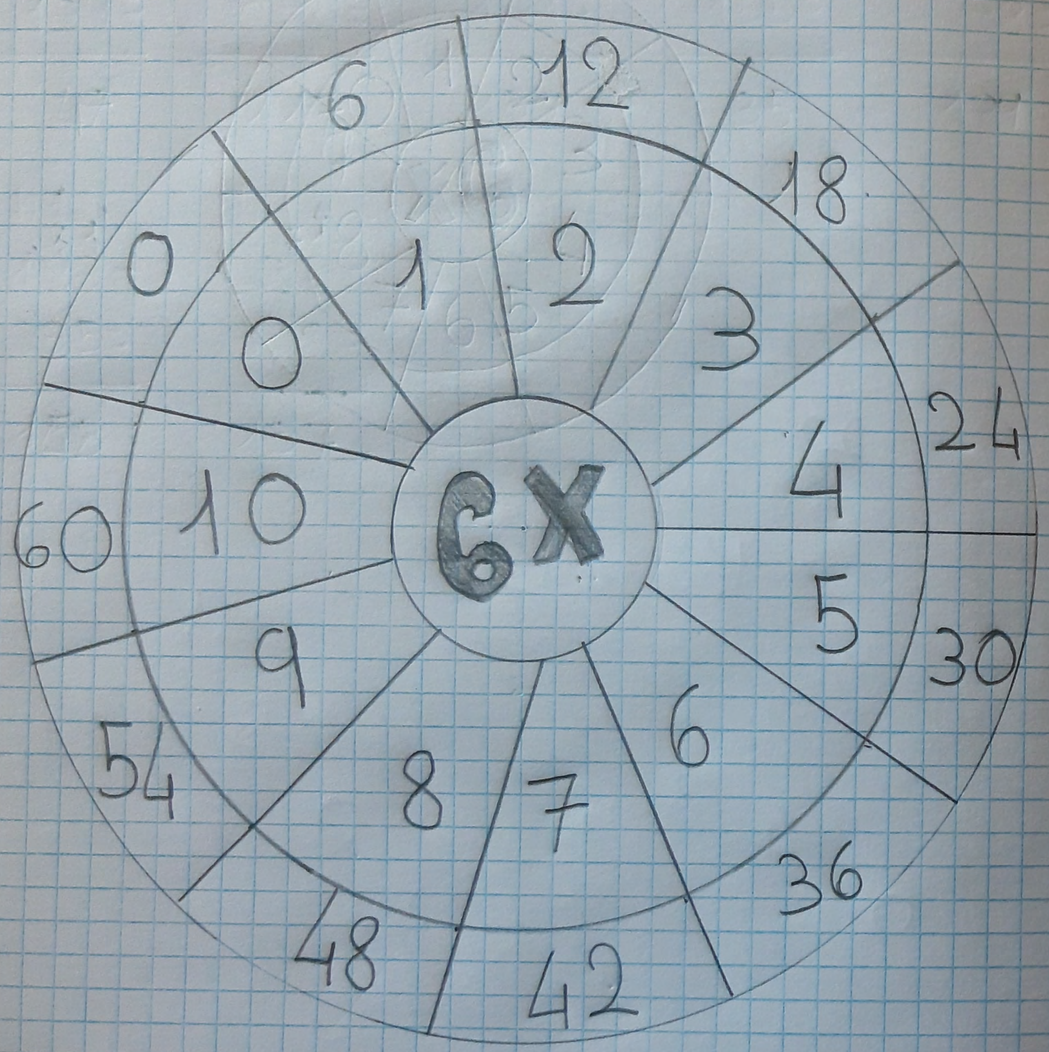

hdau	hdau	hdau	hdau	hdau
1 1	1	1	1 1	1
145 +	28 +	39 +	56 +	37 +
27 =	23 =	36 =	145 =	36 =
172	51	75	201	73
hdau	hdau	hdau	hdau	hdau
1 1	1	1 1	1	1
258 +	162 +	35 +	148 +	67 +
144 =	129 =	67 =	43 =	26 =
402	291	102	191	93
hdau	hdau	hdau	hdau	hdau
1	1	1	1	1
49 +	52 +	35 +	124 +	127 +
243 =	129 =	155 =	66 =	158 =
292	181	190	190	285
hdau	hdau	hdau	hdau	hdau
1		1	7 1	5 1
33 +	1~~8~~4 -	1~~7~~3 -	2~~8~~6 -	1~~8~~6 -
157 =	28 =	157 =	139 =	128 =
190	156	16	147	38
hdau	hdau	hdau	hdau	hdau
6 1	5 1	8 1	7 1	5 1
2~~7~~2 -	1~~6~~7 -	2~~7~~6 -	1~~8~~1 -	2~~8~~5 -
155 =	49 =	169 =	47 =	248 =
117	118	127	134	17

hdau	hdau	hdau	hdau	hdau
7 1	4 1	8 1	8 1	6 1
186 -	255 -	210 -	140 -	177 -
139 =	138 =	131 =	155 =	38 =
47	117	159	35	139

hdau	hdau
8 1	7 1
183 -	285 -
35 =	128 =
158	157