h da u	h da u	h da u	h da u	h da u
186 −	255 −	270 −	190 −	177 −
139 =	138 =	131 =	155 =	38 =
47	117	159	35	139

h da u	h da u
173 −	285 −
35 =	128 =
158	157

La tabellina del 7

7 X 0 = 0
7 X 1 = 7
7 X 2 = 14
7 X 3 = 21
7 X 4 = 28
7 X 5 = 35
7 X 6 = 42
7 X 7 = 49
7 X 8 = 56
7 X 9 = 63
7 X 10 = 70

7 X 0 = 0
7 X 1 = 7
7 X 2 = 14
7 X 3 = 21
7 X 4 = 28
7 X 5 = 35
7 X 6 = 42

7 X 7 = 49
7 X 8 = 56
7 X 9 = 63
7 X 10 = 70

7 X 0 = 0
7 X 1 = 7
7 X 2 = 14
7 X 3 = 21
7 X 4 = 28
7 X 5 = 35

7 X 6 = 42
7 X 7 = 49
7 X 8 = 56
7 X 9 = 63
7 X 10 = 70

0	49	0	49	0	49
7	56	7	56	7	56
14	63	14	63	14	63
21	70	21	70	21	70
28		28		28	
35		35		35	
42		42		42	

Addizioni i numeri vicini e scrivi il totale ottenuto.



Aiuta l'ape a raggiungere l'alveare colorando la strada giusta, cioè le caselle che formano il numero 100.

10 + 80	20 + 70	20 + 60	10 + 90	
95 + 25	80 + 10	60 + 20	50 + 50	85 + 25
60 + 40	30 + 70	20 + 80	90 + 0	70 + 20
90 + 10	30 + 50	30 + 30	80 + 40	20 + 60
70 + 30	40 + 60	50 + 50	25 + 75	60 + 30
65 + 45	35 + 55	40 + 40	40 + 60	45 + 55
10 + 70	30 + 70	85 + 15	10 + 90	95 + 5
75 + 35	50 + 50	70 + 10	50 + 40	60 + 60
45 + 15	15 + 85	90 + 10		70 + 60

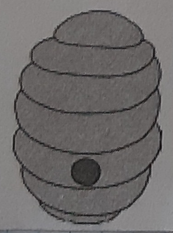

NOME:

Esercizi di ripasso delle tabelline dal 2 al 6

- Completa le tabelline con i numeri mancanti

2 4 6 8 10 12 14 16 18 20

3 6 9 12 15 18 21 24 27 30

4 8 12 16 20 24 28 32 36 40

5 10 15 20 25 30 35 40 45 50

6 12 18 24 30 36 42 48 54 60

- Trova il numero mancante nelle seguenti moltiplicazioni

3 x 3 = 9	2 x 4 = 12	4 x 6 = 24
4 x 6 = 24	3 x 9 = 27	5 x 4 = 20
5 x 7 = 35	6 x 6 = 36	2 x 5 = 10
6 x 8 = 48	5 x 3 = 15	6 x 7 = 42
2 x 10 = 20	2 x 7 = 14	3 x 7 = 21
4 x 2 = 8	6 x 9 = 54	4 x 4 = 16
5 x 5 = 25	6 x 3 = 18	6 x 2 = 12

- Metti in ordine crescente i seguenti numeri (nel quaderno)

23 – 12 – 89 – 100 – 34 – 71 - 55 – 96 – 8 – 67 – 49 – 31 – 74

- Metti in ordine decrescente i seguenti numeri (nel quaderno)

45 – 5 – 99 – 57 – 88 – 104 – 16 – 22 – 56 – 39 – 65 – 78 – 12

Metti in ordine crescente i seguenti numeri

8 12 23 31 34 49 55 67 71 74 89 96 100

Metti in ordine decrescente i seguenti numeri

104 99 88 78 65 57 56 45 39 22 16 12 5

- Calcola a mente la moltiplicazione all'interno delle parentesi e metti il segno <, > o = tra i due risultati

Es. (3 x 8) > (2 x 7) perché 24 > 21

(5 x 3) > (6 x 2) (6 x 2) = (4 x 3)

(3 x 6) > (2 x 7) (3 x 5) = (5 x 3)

(2 x 10) < (3 x 7) (4 x 3) < (5 x 6)

(4 x 4) = (2 x 8) (5 x 2) < (3 x 6)

- Scrivi vero (V) o falso (F). Se vuoi usa lo strumento per calcolare

Es. (15 + 10) > 20 V

(30 + 20) < 40 F (40 – 10) < 90 V

(25 + 10) = 35 V (50 – 30) > 40 F

(40 + 25) > 50 V (60 – 25) = 35 V

(10 + 10) = 35 F (100 – 50) > 60 F

Numera da 0 a 300 per 10.

0 10 20 30 40 50 60 70 80 90 100
110 120 130 140 150 160 170 180
190 200 210 220 230 240 250 260
270 280 290 300.

Numera da 0 a 150 per 5

0 5 10 15 20 25 30 35 40 45 50 55
60 65 70 75 80 85 90 95 100 105
110 115 120 125 130 135 140 145
150.

Completa la sequenza del 7.

0	7	14	21	28	35	42	49	56	63	70

Per attraversare senza pericolo il ruscello, Lorenzo deve procedere con ordine saltando solo sui sassi con la sequenza del 7. Aiutalo tu: usa le frecce.

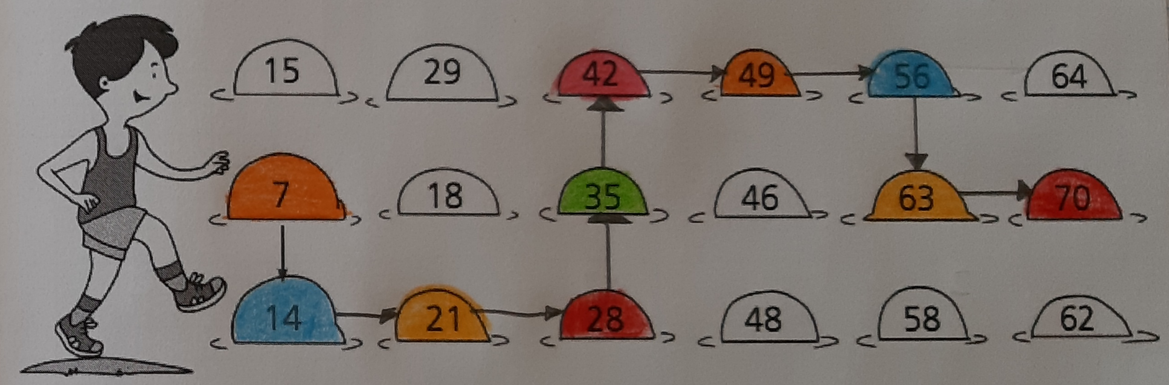

Unisci ogni moltiplicazione al suo risultato.

7 × 6 =	63	70	7 × 5 =
7 × 9 =	56	49	7 × 3 =
7 × 2 =	7	28	7 × 7 =
7 × 8 =	14	35	7 × 4 =
7 × 1 =	42	21	7 × 10 =

Scrivi su ogni maglietta il numero mancante della tabellina del 7.



- Colora di giallo solo i numeri contenuti nella tabellina del 7

35 54 14 20 32 63 48 42 7 15 21 49 25 36

28 56 40 18 70