Scrivi su ogni maglietta il numero mancante della tabellina del 7.



- Colora di giallo solo i numeri contenuti nella tabellina del 7

35 54 14 20 32 63 48 42 7 15 21 49 25 36

28 56 40 18 70

La tabellina dell' 8

8 X 0 = 0	8 X 0 = 0
8 X 1 = 8	8 X 1 = 8
8 X 2 = 16	8 X 2 = 16
8 X 3 = 24	8 X 3 = 24
8 X 4 = 32	8 X 4 = 32
8 X 5 = 40	8 X 5 = 40
8 X 6 = 48	8 X 6 = 48
8 X 7 = 56	8 X 7 = 56
8 X 8 = 64	8 X 8 = 64
8 X 9 = 72	8 X 9 = 72
8 X 10 = 80	8 X 10 = 80

8 X 0 = 0
8 X 1 = 8
8 X 2 = 16
8 X 3 = 24
8 X 4 = 32
8 X 5 = 40
8 X 6 = 48
8 X 7 = 56
8 X 8 = 64
8 X 9 = 72
8 X 10 = 80

8	8	8
16	16	16
24	24	24
32	32	32
40	40	40
48	48	48
56	56	56
64	64	64
72	72	72
80	80	80

Completa la sequenza dell'8.

0	8	16	24	32	40	48	56	64	72	80

Scrivi i risultati della tabellina dell'8, poi colora le piume del pavone secondo le indicazioni.

8 × 1 = 8 ARANCIONE

8 × 7 = 56 GIALLO

8 × 4 = 32 NERO

8 × 10 = 80 BLU

8 × 6 = 48 MARRONE

8 × 3 = 24 ROSSO

8 × 9 = 72 ROSA

8 × 2 = 16 VERDE

8 × 8 = 64 CELESTE

8 × 5 = 40 VIOLA

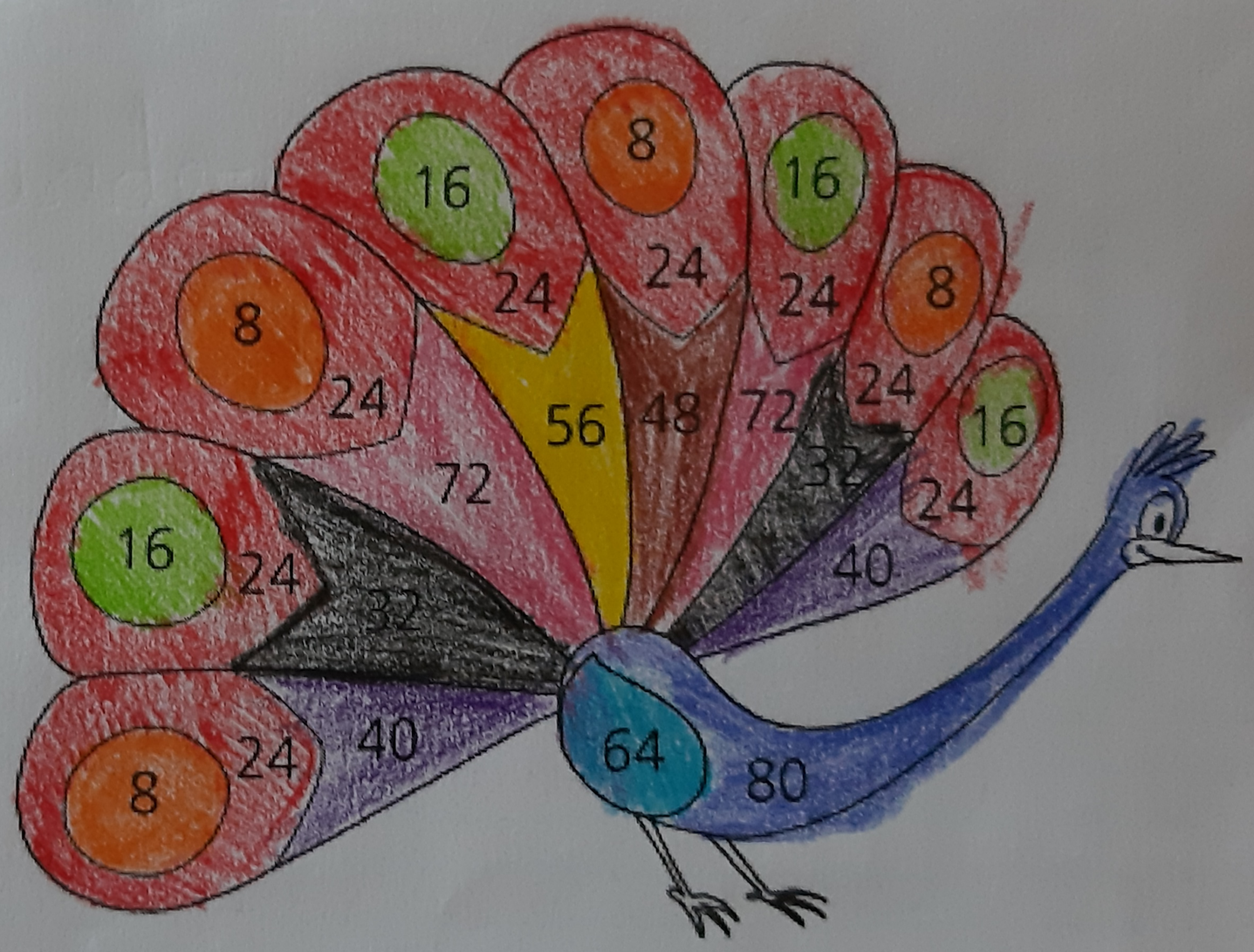

Il gambero cammina all'indietro. Indica con le frecce il suo percorso per tornare alla tana. Segui la sequenza dell'8.

80 → 72 → 64 → 56 → 48 → 40 → 32 → 24 → 16 → 8



Nella tabella qui sotto, a ogni risultato della tabellina dell'8 corrisponde una lettera. Esegui le moltiplicazioni e completa la seconda tabella: apparirà un messaggio.

A	B	E	I	O	R	S	U	V	T
8	16	24	32	40	48	56	64	72	80

LETTERE	T	U		S	E	I		B	R	A	V	O
RISULTATO	80	64		56	24	32		16	48	8	72	40
NUMERI	8×10	8×8		8×7	8×3	8×4		8×2	8×6	8×1	8×9	8×5

Colora la strada che Valentina percorre per andare a scuola. Segui la sequenza dell'8.

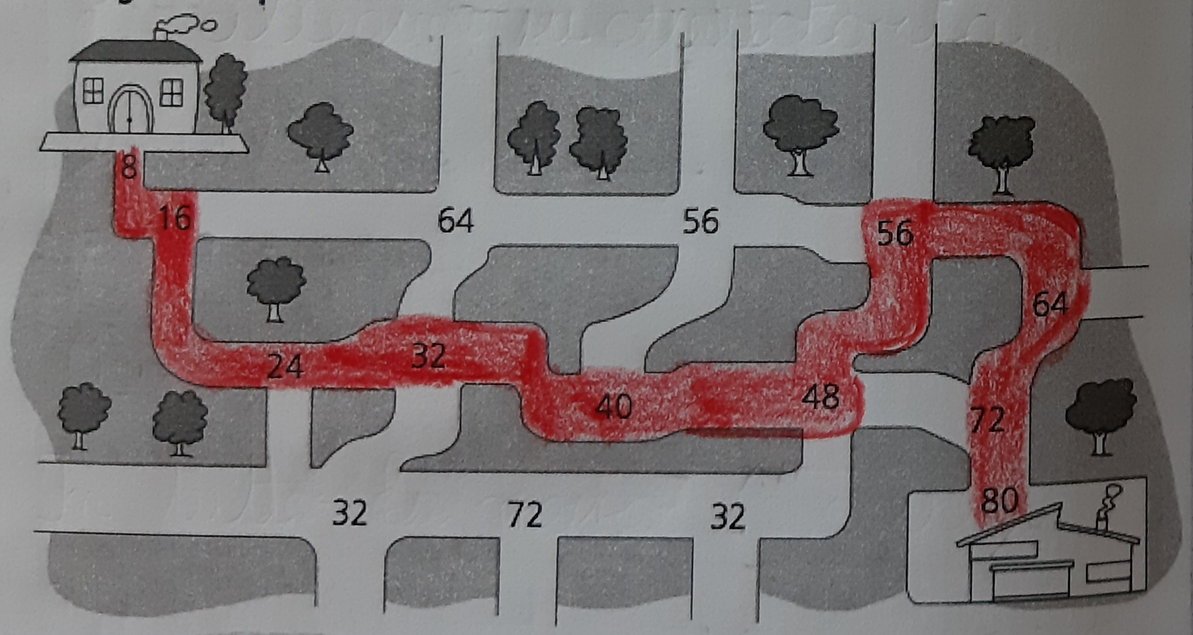

Legnaro,
23 aprile 2020

Calcola in colonna

h da u	h da u	h da u	h da u
125 +	234 +	152 +	223 +
65 =	56 =	49 =	38 =
190	290	201	261

h da u	h da u	h da u	h da u
114 +	168 +	243 +	134 +
57 =	99 =	87 =	118 =
171	267	320	26

h da u	h da u	h da u	h da u
218 −	345 −	152 −	230 −
109 =	157 =	55 =	118 =
119	218	107	122

h da u	h da u
176 −	124 −
78 =	67 =
98	157

Problemi

Il pasticciere ha preparato 7 torte e su ognuna ha messo 9 ciliegine.
Quante ciliegine ha messo in tutto?

Dati

7 = torte
9 = ciliegine su ogni torta

Operazione

7 x 9 = 63

Risposta

In tutto ha messo 63 ciliegine.

Sul prato sono cresciuti 115 margherite, 75 violette e 34 tulipani.
Quanti fiori ci sono in tutto?

Dati

115 = margherite sul prato
75 = violette sul prato
34 = tulipani sul prato

Operazione

115 + 75 + 34 = 224

```
 h da u
 1 1
 1 1 5 +
   7 5
     3 4 =
 -------
   2 2 4
```

Risposta

In tutto ci sono 224 fiori.

Nel cortile ci sono 45 coni-
gli e 18 galline.

Quanti sono i conigli
in più?

Dati

45 = conigli nel cortile
18 = galline nel cortile

Operazione

45 - 18 = 27

da u
3 ~~4~~ 15 -
18 =
27

Risposta

I conigli sono 27 in più.

In una cartoleria ci sono
156 penne e in una setti-
mana ne vengono vendute
78.

Quante penne sono rimas-
te nella cartoleria?

Dati

156 = penne in tutto nella
cartoleria
78 = penne rimaste in car-
toleria

Operazione

156 - 78 = 78

h da u
0 ~~1~~ ~~5~~ ~~6~~ -
78 =
78

Risposta

In cartoleria sono rimas-
te 78 penne.

Trova la domanda

Alice entra in un vivaio, acquista 67 piantine e ne regala 38 alle sue amiche.

Quante piantine rimangono ad Alice?

Dati

67 = piantine in tutto

38 = piantine regalate alle sue amiche

Operazione

67 - 38 = 29

da u
5~~6~~7 -
38 =
29

Risposta

Ad Alice rimangono 29 piantine.

Componi i seguenti numeri

345 274 198 216 460 537

345 = 3h + 4da + 5u = 300+40+5=345

274 = 2h + 7da + 4u = 200+70+4=274

198 = 1h + 9da + 8u = 100+90+8=198

216 = 2h + 1da + 6u = 200+10+6=216

460 = 4h + 6da + 0u = 400+60+0=460

537 = 5h + 3da + 7u = 500+30+7=537

Riscrivi i numeri in ordine decrescente, cioè dal maggiore al minore.

30	75	2	15	99	→	99	75	30	15	2
27	57	48	91	68	→	91	68	57	48	27
88	5	99	76	58	→	99	88	76	58	5
52	64	59	41	50	→	64	59	52	50	41
93	18	72	19	88	→	93	88	72	19	18
50	55	7	73	33	→	73	55	50	33	7
78	51	58	30	60	→	78	60	58	51	30

Riscrivi i numeri in ordine crescente, cioè dal minore al maggiore.

7	35	56	10	95	→	7	10	35	56	95
8	75	89	60	53	→	8	53	60	75	89
77	50	39	5	0	→	0	5	39	50	77
10	38	66	61	52	→	10	38	52	61	66
67	34	43	58	82	→	34	43	58	67	82
55	59	52	45	97	→	45	52	55	59	97
73	54	29	9	97	→	9	29	54	73	97
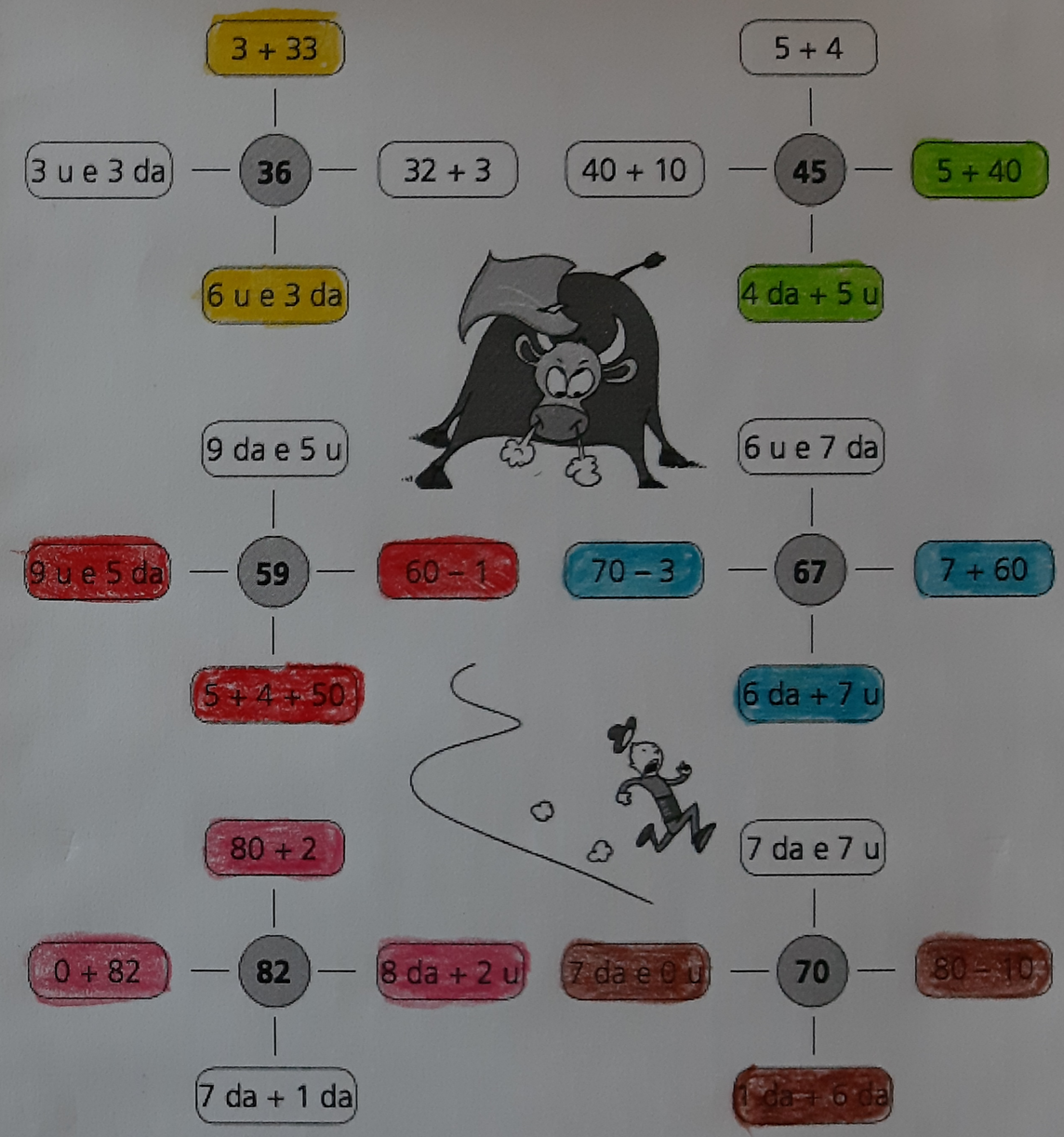
Colora solo i cartellini che rappresentano il numero nel cerchio.