Lognato,
28 aprile 2020
martedì

Le quattro stagioni

• Scrivi la stagione precedente e successiva a quella indicata.

INVERNO	PRIMAVERA	ESTATE
ESTATE	AUTUNNO	INVERNO
PRIMAVERA	ESTATE	AUTUNNO
AUTUNNO	INVERNO	PRIMAVERA

• Vero o falso?

- Le stagioni sono tutte uguali. V ~~F~~
- Ogni stagione dura circa tre mesi. ~~V~~ F
- Le stagioni seguono un ordine ciclico. ~~V~~ F
- L'inverno è la stagione più calda. V ~~F~~
- La primavera segue l'inverno. ~~V~~ F
- L'autunno è la stagione più fredda. V ~~F~~
- L'estate precede l'autunno. ~~V~~ F
- La primavera viene dopo l'estate. V ~~F~~

Esploriamo l'anno!

1. Completa la tabella con l'aiuto del calendario

MESE PRECEDENTE	MESE ATTUALE	MESE SUCCESSIVO
FEBBRAIO	Marzo	APRILE
LUGLIO	Agosto	SETTEMBRE
OTTOBRE	Novembre	DICEMBRE
GIUGNO	Luglio	AGOSTO
APRILE	Maggio	GIUGNO
GENNAIO	Febbraio	MARZO
MARZO	Aprile	MAGGIO
SETTEMBRE	Ottobre	NOVEMBRE
AGOSTO	Settembre	OTTOBRE

2. Scrivi vicino a ogni mese il suo numero d'ordine come nell'esempio. Se hai dei dubbi, conta usando il calendario.

3°	Marzo	12°	Dicembre	1°	Gennaio
4°	Aprile	2°	Febbraio	5°	Maggio
8°	Agosto	11°	Novembre	6°	Giugno
10°	Ottobre	7°	Luglio	9°	Settembre

3. Scrivi il numero dei giorni di ogni mese aiutandoti con il calendario, poi completa la filastrocca.

Gennaio 31	Febbraio 28-29	Marzo 31
Maggio 31	Giugno 30	Luglio 31
Settembre 30	Ottobre 31	Novembre 30
Dicembre 31	Agosto 31	Aprile 30

30 giorni ha Novembre con April, Giugno e Settembre.
Di 28 ce n'è uno, tutti gli altri ne han 31.



I paesaggi

- Incolla una foto o disegna il luogo dove vivi e poi completa il testo.



- Il luogo dove vivo si chiama Legnaro

È un posto di: ☒ pianura ☐ collina ☐ montagna ☐ mare

La mia casa si trova: ☒ in centro ☐ in periferia ☐ isolata

Vicino casa mia c'è: ☐ l'ospedale ☒ la farmacia ☐ la chiesa

☐ il fruttivendolo ☐ la palestra ☐ la panetteria ☒ l'edicola

☐ il supermercato ☒ il bar ☐ la scuola ☐ il cinema

Mi piace il luogo dove abito perché è un posto tranquillo e molto grande

Preferirei che dove abito ci fosse anche molto molto cotore.

CITTÀ E CAMPAGNA

❶ Osserva attentamente le due mappe e scrivi sotto a ciascuna a quale ambiente si riferisce: campagna o città.



campagna

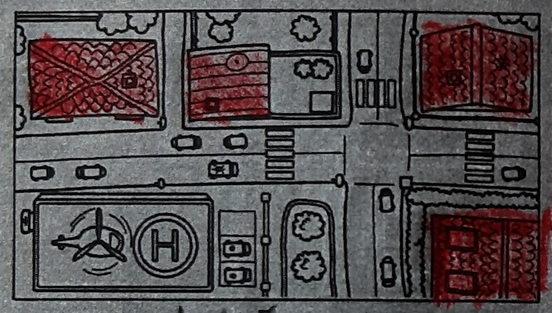

città

❷ In entrambe le mappe colora i simboli che indicano le abitazioni. Che cosa puoi notare?

che in città ci sono più abitazioni.

❸ Riscrivi le parole al posto giusto nella tabella. Attento! Alcuni elementi possono andar bene per tutti e due gli ambienti.

vigneto - semaforo - fattoria - fienile - cane - gatto - cespuglio - platano - frutteto - gallina - stalla - strada - muretto - marciapiede - negozio

	IN CAMPAGNA	IN CITTÀ
Cose costruite dall'uomo	fattoria fienile stalla	semaforo strade negozio muretto marciapiede
Animali	cane gatto gallina	cane gatto
Piante	cespuglio platano vigneto frutteto	platani cespugli

- NATURALE O ANTROPICO? Metti una X al posto giusto.

Elemento del paesaggio	Naturale	Antropico (o artificiale)
	X	
		X
	X	
	X	
		X
	X	
	X	
		X
		X
	X	
		X
		X
	X	
		X