Legnaro,
12 maggio 2020
martedì

INSERISCI IL NOME DEL PAESAGGIO RAPPRESENTATO NEI DISEGNI:

MONTAGNA-COLLINA-PIANURA

	È un paesaggio di collina
	È un paesaggio di montagna
	È un paesaggio di pianura

SCRIVI SUI CARTELLINI SE SI TRATTA DI PAESAGGI NATURALI O ARTIFICIALI



INSERISCI I NOMI NEI CARTELLINI E INDICA CON UNA FRECCIA: CIMA-GHIACCIAIO-BOSCO-BAITA-RUSCELLO.

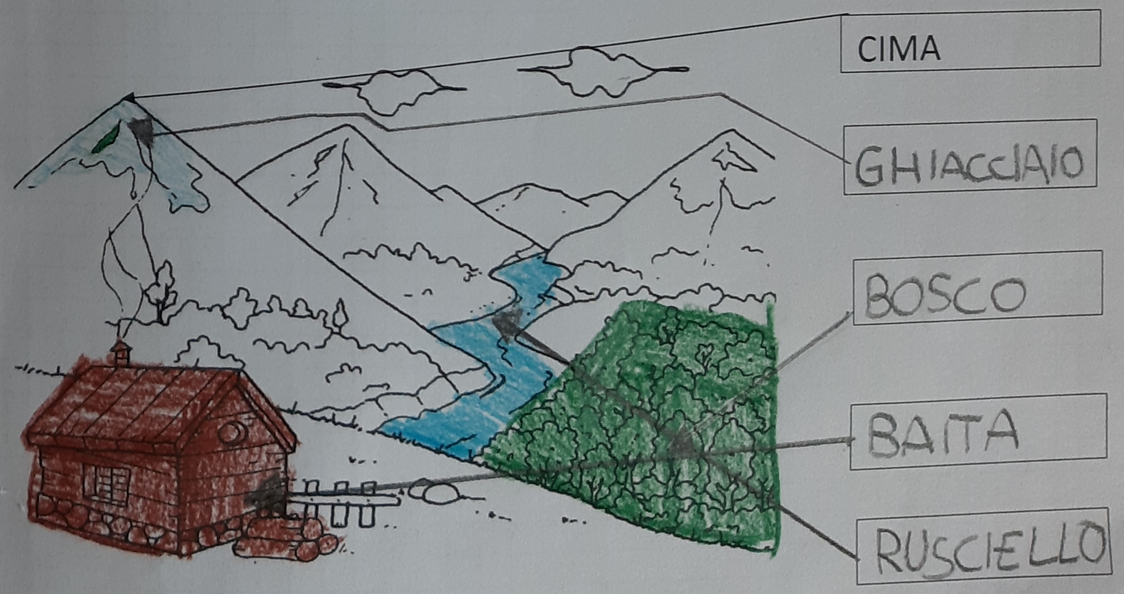

EDIFICI... PARTICOLARI

In questa immagine ci sono alcuni edifici che tutti i cittadini possono frequentare, cioè edifici aperti al pubblico.

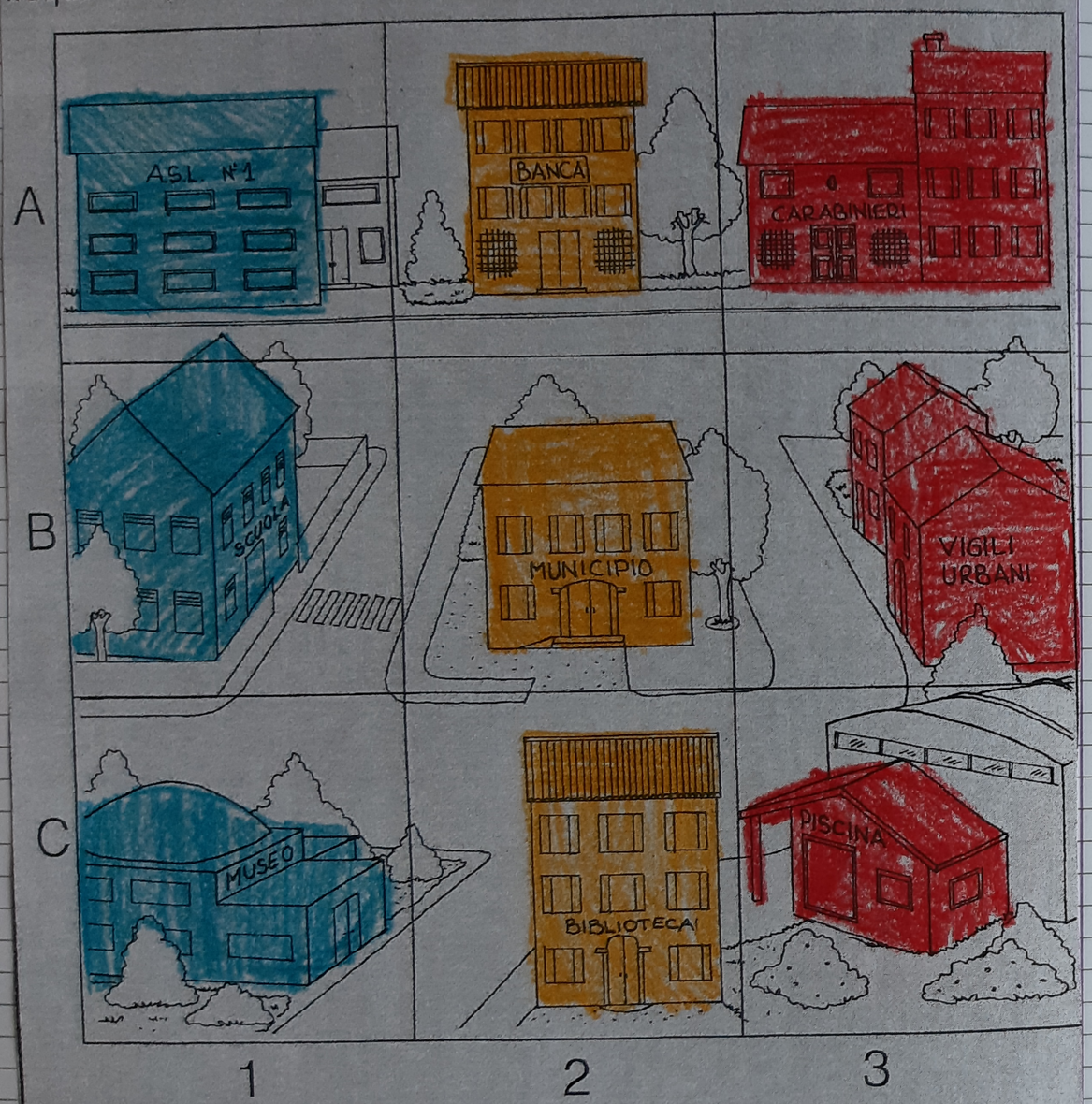

OSSERVA L'IMMAGINE E INDICA LE POSIZIONI DI QUESTI ELEMENTI:

Municipio B,2
A.S.L. A,1
Biblioteca Comunale C,2
Piscina C,3
Carabinieri A,3

Scuola B,1
Vigili B,3
Museo C,1
Banca A,2

Disegna le lancette sugli orologi



LE FASI DEL GIORNO

1 Osserva il disegno e completa con i nomi delle parti del giorno.

notte | tramonto | alba | mattino | mezzogiorno | sera | pomeriggio

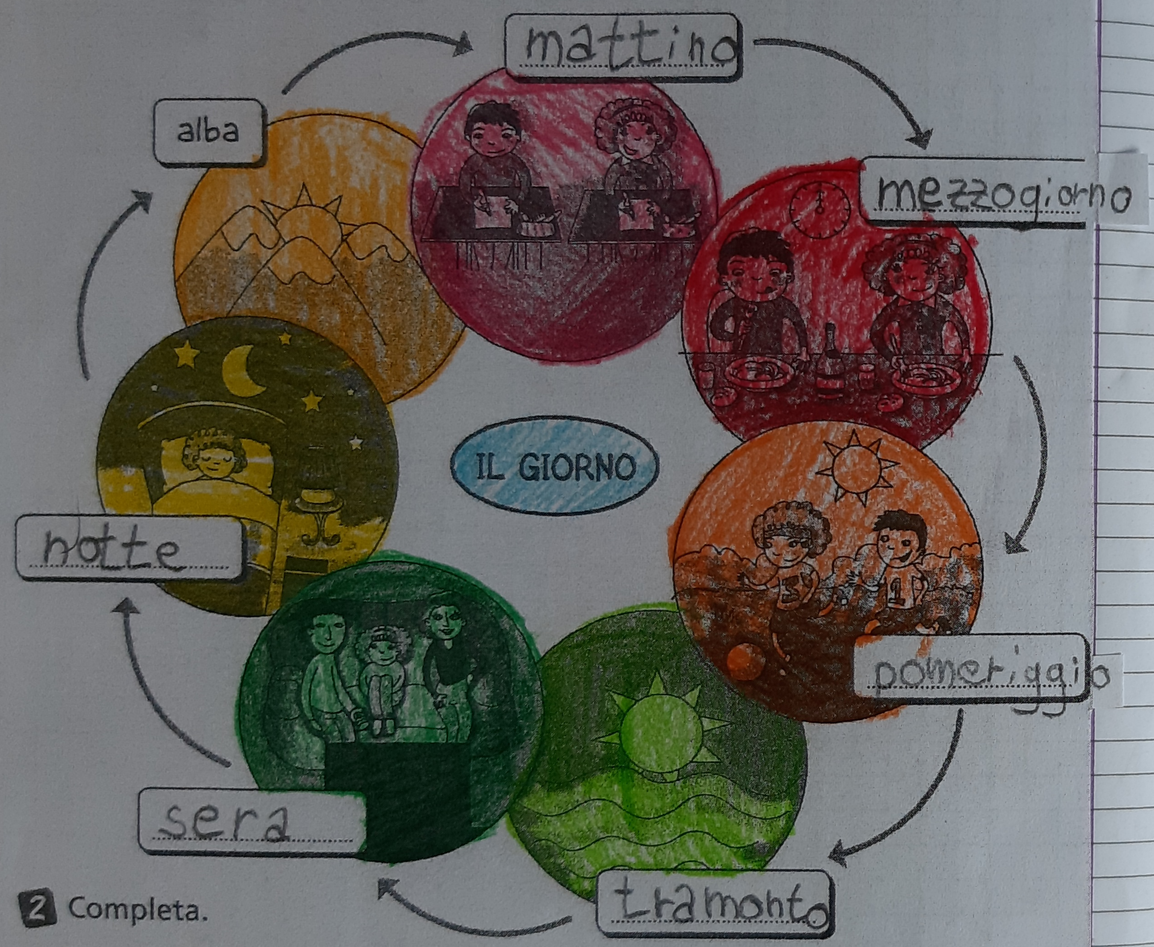

2 Completa.

- Dopo il mattino c'è sempre il pomeriggio.
- Prima della notte c'è sempre la sera.
- Mezzogiorno viene prima del pomeriggio.
- Tra la sera e l'alba c'è sempre la notte.