44 + 40 = 84

45 – 10 = 35

Calcola

pag. 64-65 es. n° 2-2-3

dau	dau	dau	dau
24x	44x	33x	32x
2 =	2=	2=	3 =
48	88	66	96

dau

$$\begin{array}{r} {}^{1} \\ 14\times \\ 4= \\ \hline 56 \end{array}$$

dau

$$\begin{array}{r} {}^{2} \\ 17\times \\ 3= \\ \hline 51 \end{array}$$

dau

$$\begin{array}{r} {}^{1} \\ 46\times \\ 2= \\ \hline 92 \end{array}$$

dau

$$\begin{array}{r} {}^{3} \\ 18\times \\ 4= \\ \hline 72 \end{array}$$

6 | 7   0 | 4   2 | 8   6 | 2

2 Metti in colonna ed esegui le moltiplicazioni.

22 × 4 =

da	u	
2	2	×
	4	=
8	8	

44 × 2 =

da	u	
4	4	×
	2	=
8	8	

10 × 6 =

da	u	
1	0	×
	6	=
6	0	

34 × 2 =

da	u	
3	4	×
	2	=
6	8	

30 × 3 =

da	u	
3	0	×
	3	=
9	0	

11 × 8 =

da	u	
1	1	×
	8	=
8	8	

21 × 2 =

da	u	
2	1	×
	2	=
4	2	

13 × 3 =

da	u	
1	3	×
	3	=
3	9	

	4	=
7	2	

	6	=
7	8	

	7	=
8	4	

9	0

2 Metti in colonna ed esegui le moltiplicazioni.

36 × 2 =

da	u	
3	6	×
	2	=
7	2	

27 × 3 =

da	u	
2	7	×
	3	=
8	1	

45 × 2 =

da	u	
4	5	×
	2	=
9	0	

19 × 3 =

da	u	
1	9	×
	3	=
5	7	

12 × 8 =

da	u	
1	2	×
	8	=
9	6	

28 × 3 =

da	u	
2	8	×
	3	=
8	4	

13 × 5 =

da	u	
1	3	×
	5	=
6	5	

17 × 5 =

da	u	
1	7	×
	5	=
8	5	

IN MONTAGNA CON FEDERICO

1 Durante una passeggiata nei boschi, Federico ha scoperto un nuovo amico. Colora gli spazi con i numeri maggiori di 25 e scoprirai chi è.

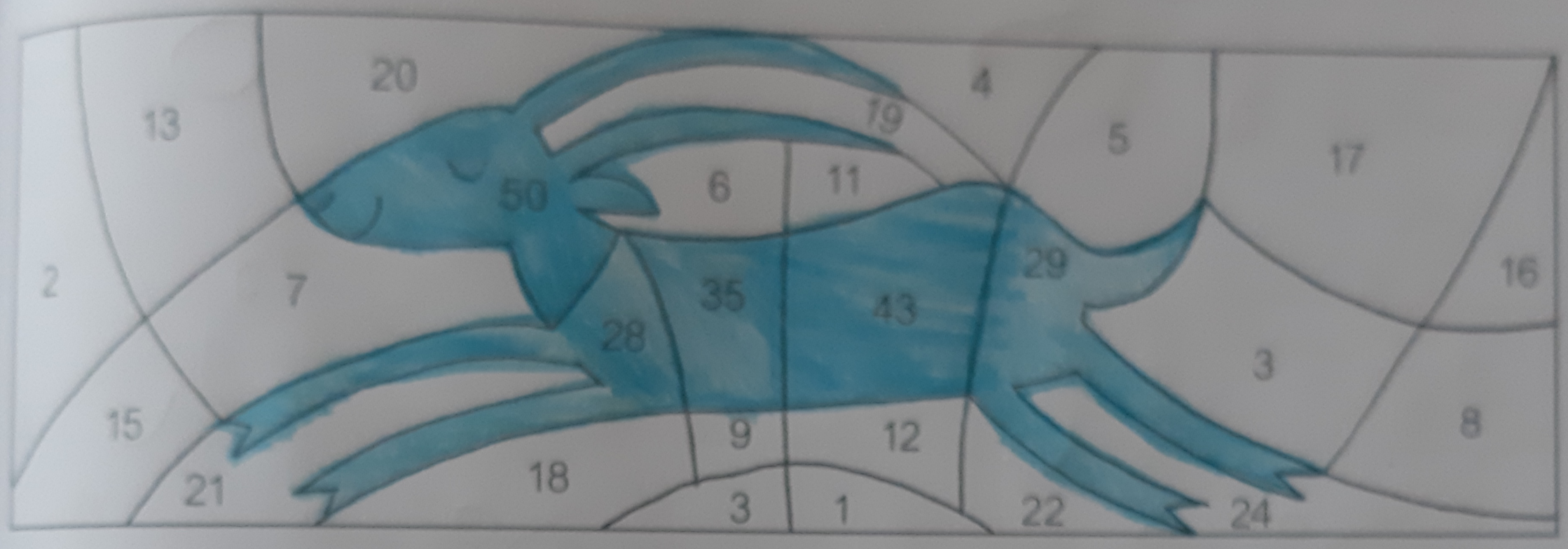

2 Leggi le coordinate, colora le caselle e scopri che cosa mangerà oggi Federico.

2,A 7,B 3,C 9,D 4,E 5,F 1,G 6,H 8,I 10,L

	1	2	3	4	5	6	7	8	9	10
A	A	M	H	U	L	U	F	N	M	P
B	E	R	T	I	O	L	I	F	D	S
C	Z	C	N	B	M	Q	E	D	G	O
D	S	C	P	W	E	M	R	V	E	K
E	I	L	G	S	R	S	M	H	L	I
F	Z	S	M	T	T	E	A	D	G	K
G	R	E	R	H	G	V	C	D	S	W
H	D	S	A	Z	X	O	V	B	N	M
I	F	G	H	J	L	P	O	N	U	Y
L	C	M	K	B	U	V	Q	E	R	E

• Oggi Federico mangerà il minestrone

MISSIONE: VACANZE!

IN MONTAGNA CON BIANCA

1 Tra le due immagini ci sono 10 piccole differenze. Cerchiale.

2 Nell'invito non si legge il numero della via! Segui gli indizi e scopri qual è.

- È un numero compreso tra 20 e 40.

  Potrebbe essere: 30
- È un numero dispari.

  Potrebbe essere: 29
- La cifra delle decine non è 2.

  Potrebbe essere: 39
- La cifra delle unità è 5.

  È il numero 35



MISSIONE: VACANZE!

IN CAMPAGNA CON FEDERICO

1 Colora gli spazi con i confronti corretti. Che cosa apparirà?

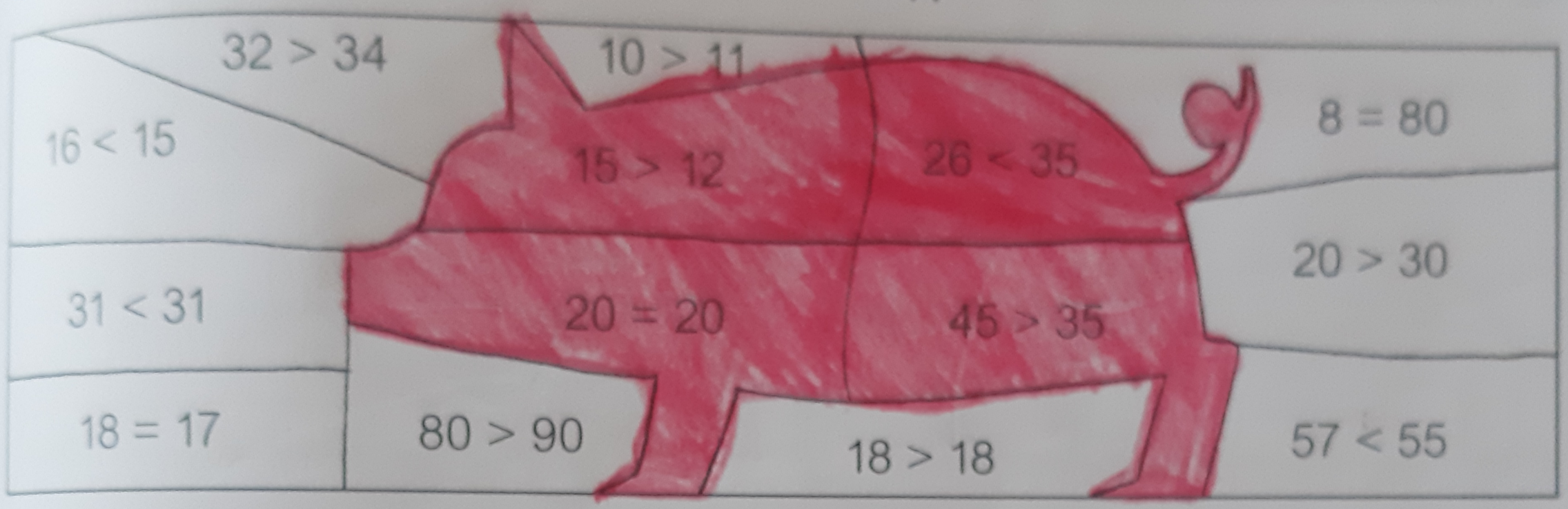

2 Esegui le operazioni, poi scrivi in tabella i risultati in ordine crescente, trascrivi le lettere corrispondenti e scoprirai che cosa ha fatto oggi Federico. Scrivilo nel fumetto.

5 + 7 = 12 → C	9 + 6 = 15 → T	8 + 9 = 17 → O	9 + 5 = 14 → A
10 + 8 = 18 → A	15 + 4 = 19 → C	20 + 6 = 26 → O	12 + 13 = 25 → I
9 – 5 = 4 → O	8 – 0 = 8 → I	10 – 5 = 5 → G	26 – 4 = 22 → C
38 – 17 = 21 → L	40 – 20 = 20 → A	19 – 8 = 11 → O	25 – 24 = 1 → H

RISULTATO	1	4	5	8	11	12	14	15	17	18	19	20	21	22	25	26
LETTERA CORRISPONDENTE	H	O	G	I	O	C	A	T	O	A	C	A	L	C	I	O